DE TAFEL VAN 2 ANDERS BEKEKEN

Schrijf de tafel van 2 op. Schrijf alleen de cijfers van de eenheden op.

2	4	6	8	0	2	4	6	8	0	2	4	6	8	0	2	4	6	8	0	2	4	6	8	0	

Verbind de cijfers van de eenheden met boogjes boven de cijfers.

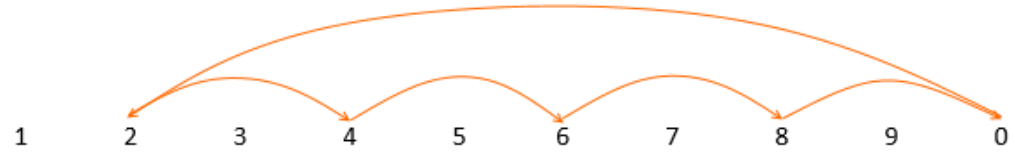

Verbind de cijfers van de eenheden met lijnen binnen de cirkel

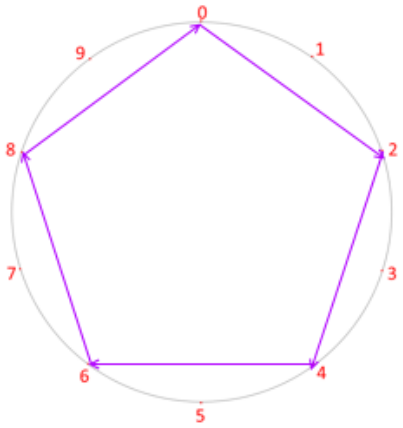

Verbind de cijfers van de eenheden met boogjes buiten de cirkel

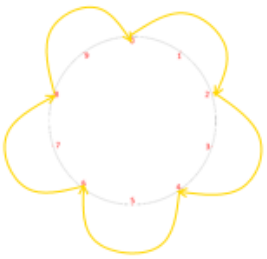

Waar vind je de tafel van 2 op straat?

De huisnummers op de even kant van de straat.

Waar vind je de tafel van 2 in de natuur?

De maan kruist tweemaal per maand de zonnebaan.

Een etmaal heeft twee delen: dag en nacht.

Iedereen (mensen, zoogdieren, vogels…) heeft 2 ouders

Ieder mens heeft 2 armen, 2 benen …

Een paar schoenen = 2 schoenen

Enz.